ATIVIDADE 1

CHURRASCO EM FAMÍLIA

AJUDE A CALCULAR A QUANTIDADE DE CARNE A SER COMPRADA PARA FAZER ESTE CHURRASCO EM FAMÍLIA. CALCULA-SE 600 G DE CARNE POR CONVIDADO ADULTO E 300 G DE CARNE POR CONVIDADO CRIANÇA. SERÃO DUAS FAMÍLIAS PARTICIPANDO DESTE CHURRASCO: 4 ADULTOS E 2 CRIANÇAS. QUANTOS QUILOGRAMAS DE CARNE PRECISAM SER COMPRADOS?

ATIVIDADE 2

(3º BALDE)
QUILOGRAMA

(2º BALDE)
GRAMA

(1º BALDE)
MILIGRAMA

NESTA ATIVIDADE, VOCÊ É O JUÍZ DA PROVA. A PROVA CONSISTE EM CADA JOGADOR LANÇAR 5 BOLAS EM QUALQUER UM DOS 3 BALDES. CADA BOLA LANÇADA VALE 1 PONTO E DE ACORDO COM A DISTÂNCIA DO BALDE SÃO ATRIBUÍDAS UNIDADES DIFERENTES DE MEDIDA. SE O JOGADOR ACERTAR A BOLA NO 1º BALDE ELE MARCA 1 MG, SE ACERTAR NO 2º BALDE MARCA 1 G E SE ACERTAR NO TERCEIRO (O MAIS DISTANTE) MARCA 1 KG.
NA TABELA ABAIXO TEMOS O QUE ACONTECEU COM AS 5 BOLAS LANÇADAS POR 3 JOGADORES. VOCÊ, COMO JUIZ, DEVERÁ DETERMINAR A PONTUAÇÃO FINAL DE CADA JOGADOR (TOTAL DE MASSA ACUMULADA) E QUAL O VENCEDOR. QUANDO APARECER UM X NA TABELA É PORQUE A BOLA CAIU FORA DO BALDE.

JOGADOR	BOLA 1	BOLA 2	BOLA 3	BOLA 4	BOLA 5	TOTAL DE MASSA ACUMULADA
ANA	X	2º BALDE	X	X	3º BALDE	
BIA	1º BALDE	1º BALDE	1º BALDE	1º BALDE	1º BALDE	
JUCA	1º BALDE	X	2º BALDE	X	3º BALDE	
VENCEDOR DA PROVA:						

DESAFIO
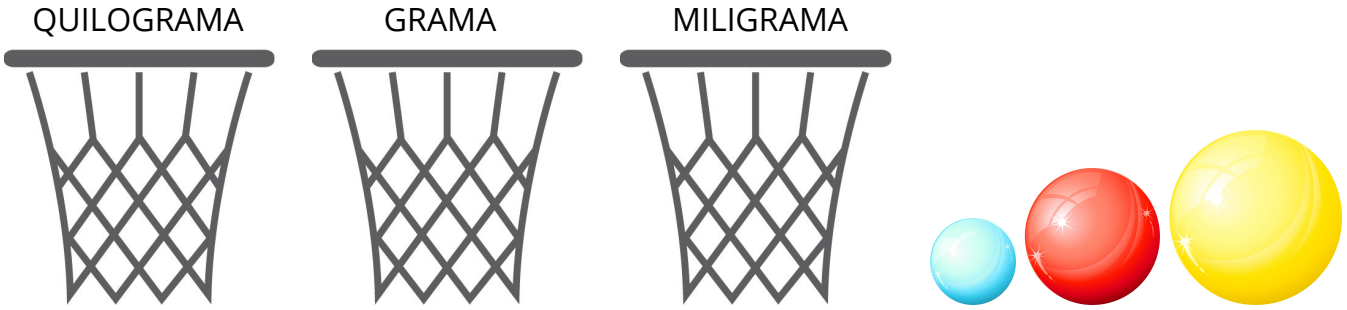
KARINA E GUILHERME ESTAVAM JOGANDO ARREMESSO AO CESTO. VOCÊ PRECISARÁ CONFERIR QUEM FOI O VENCEDOR DESTE JOGO. CADA UM TINHA 3 BOLAS PARA JOGAR EM TRÊS CESTOS DISTINTOS.
CADA CESTO POSSUI UMA UNIDADE DE MEDIDA E CADA COR DE BOLA REPRESENTA UM VALOR NUMÉRICO. O CESTO MAIS PRÓXIMO CORRESPONDE A MILIGRAMAS, O DO MEIO A GRAMAS E O MAIS DISTANTE A QUILOGRAMAS. A BOLA AZUL VALE 10, A BOLA VERMELHA VALE 100 E A BOLA AMARELA VALE 1.000.
SE A BOLA AMARELA CAIR NO CESTO MAIS PRÓXIMO (MILIGRAMA), ENTÃO SUA PONTUAÇÃO FICARÁ 1.000 MG.
DESCUBRA QUAL A PONTUAÇÃO DE KARINA E DE GUILHERME E DIGA QUAL FOI O VENCEDOR DA PARTIDA.