Esta atividade deverá ser utilizada no Mão na massa!!!!

Avião

Jordan Sanchez / Unsplash



Ano da invenção: _____

Autor da invenção:_____

Nome da 1ª máquina:_____

Para que serve a máquina:_____

_____

Tipo de combustível utilizado na 1ª máquina:

_____

Tipo de combustível utilizado nos aviões atuais:

_____

Automóvel

Edgar Guerra / Unsplash

Ano da invenção: _____

Autor da invenção:_____

Nome da 1ª máquina:_____

Para que serve a máquina:_____

_____

Tipo de combustível utilizado na 1ª máquina: _____

_____

Tipo de combustível utilizado nos automóveis atuais: __

_____

Esta atividade deverá ser utilizada no Mão na massa!!!!

Motocicleta

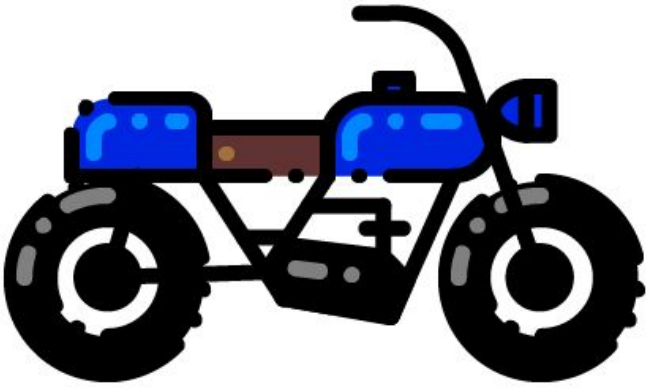

Ano da invenção: _____

Autor da invenção:_____

Nome da 1ª máquina:_____

Para que serve a máquina:_____

_____

Tipo de combustível utilizado na 1ª máquina: _____

_____

Tipo de combustível utilizado nas motocicletas atuais: __

_____

Trem

Pixabay

Ano da invenção: _____

Autor da invenção:_____

Nome da 1ª máquina:_____

Para que serve a máquina:_____

_____

Tipo de combustível utilizado na 1ª máquina: _____

_____

Tipo de combustível utilizado nos trens atuais: _____

_____

Esta atividade deverá ser utilizada no Mão na massa!!!!

Ônibus



Ano da invenção: _____

Autor da invenção:_____

Nome da 1ª máquina:_____

Para que serve a máquina:_____

_____

Tipo de combustível utilizado na 1ª máquina: _____

_____

Tipo de combustível utilizado nos ônibus atuais: _____

_____

Trator

Pixabay

Ano da invenção: _____

Autor da invenção:_____

Nome da 1ª máquina:_____

Para que serve a máquina:_____

_____

Tipo de combustível utilizado na 1ª máquina:

_____

Tipo de combustível utilizado nos tratores atuais:

_____

Esta atividade deverá ser utilizada no Mão na massa!!!!

Navio

Gettyimages



Ano da invenção: _____

Autor da invenção:_____

_____

Nome da 1ª máquina:_____

Para que serve a máquina:_____

Tipo de combustível utilizado na 1ª máquina:_____

Tipo de combustível utilizado nos navios atuais:_____

Caminhão

Ano da invenção: _____

Autor da invenção:_____

Nome da 1ª máquina:_____

Para que serve a máquina:_____

_____

Tipo de combustível utilizado na 1ª máquina:

_____

Tipo de combustível utilizado nos caminhões atuais:

_____